Zadanie 1.

Uzupełnij zdania wyrażeniami wybranymi z ramki.

hipotezy • doświadczenia • naukową

Fizycy, aby ocenić proponowane wyjaśnienie zjawiska, stawiają

..... *i przeprowadzają* .....*.*

Stosują w ten sposób metodę .....*.*

Zadanie 2.

Na elektronicznej wadze sklepowej położono kawałek sera. Waga wskazała 380 gramów.
Poniżej zapisano wskazanie wagi wraz z niepewnością pomiaru.

$$(380 \pm 5)\ \text{gramów}$$

Uzupełnij zdanie.

Najprawdopodobniej masa kawałka sera jest większa niż ..... *gramów*

i mniejsza niż ..... *gramów.*

Zadanie 3.

Pod każdą fotografią zapisz wynik pomiaru wraz z niepewnością.

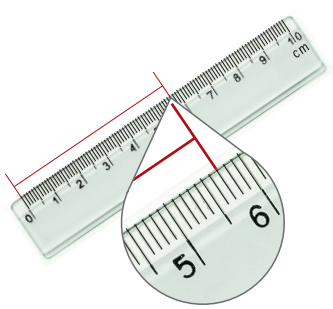



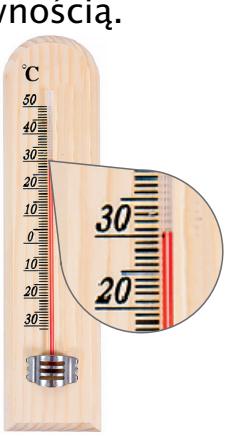

....

© Copyright by Gdańskie Wydawnictwo Oświatowe